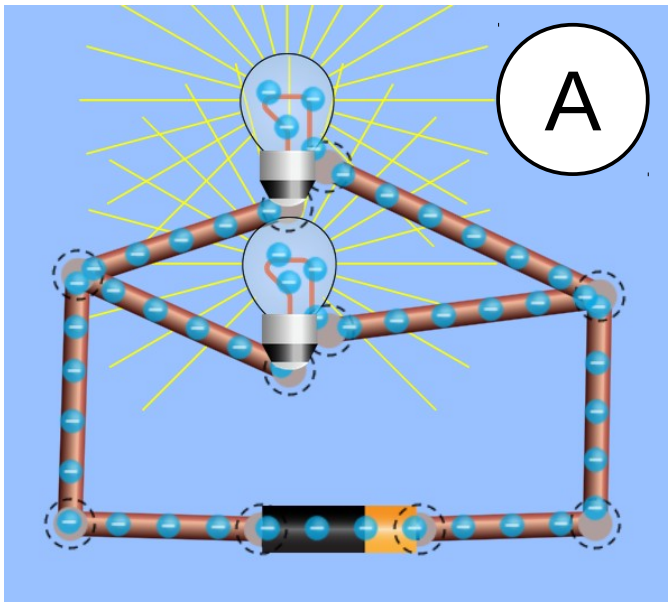

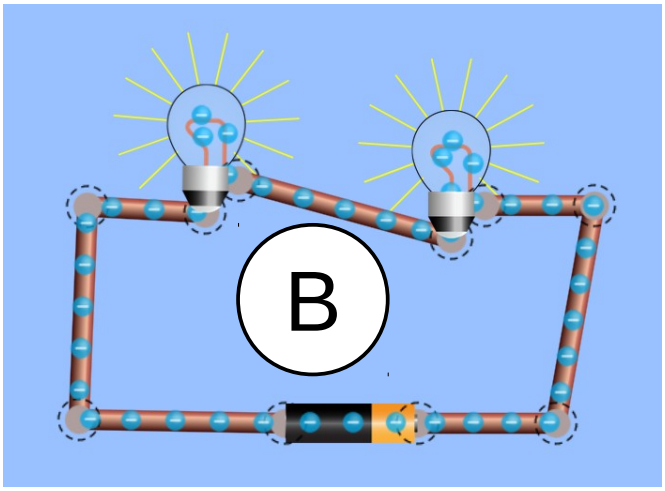

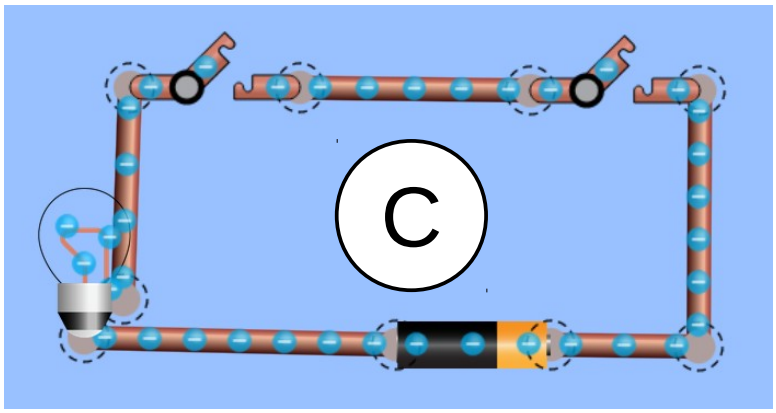

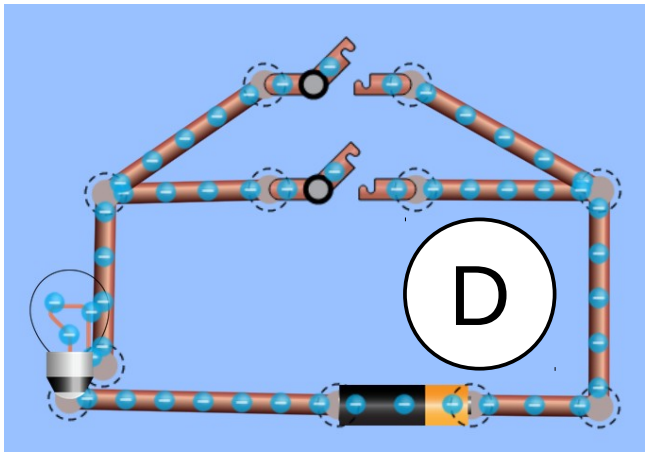

Gib an, bei welchen Stromkreisen die zwei Schalter bzw. die zwei Lampen in Reihe (=Serie) und bei welchen sie parallel geschaltet sind:

Reihenschaltung: Stromkreise ___ und ___

Parallelschaltung: Stromkreise ___ und ___

Gib an, wie man Schaltung C noch nennt: _____-Schaltung

Gib an, wie man Schaltung D noch nennt: _____-Schaltung

Erkläre kurz, wieso man die Schaltungen C und D so nennt.

_____

_____

_____

Vergleiche die Helligkeit der beiden Lampen in den Stromkreisen A und B und beschreibe, was du siehst.

_____

_____